5 Las actividades económicas en España

1. El sector primario

1.1 Las actividades agrarias

Las actividades agrarias tienen en la actualidad poca importancia, pues en 2013 ocupaban únicamente al 4,4 % de la población.

- **La agricultura.** Los cultivos más extendidos son los cereales (trigo, cebada, maíz, arroz), las leguminosas (guisantes, habas), la vid, el olivo, los productos hortofrutículas, las plantas industriales (girasol, algodón, colza, etc.) y los forrajes para el ganado.
- **La ganadería.** Destacan el bovino de leche y de carne; el ovino para la elaboración de quesos; el porcino para carne y embutidos; y el avícola para carne y huevos.
- **La explotación forestal.** Se centra en ciertas especies de frondosas (haya, roble, castaño, chopo, eucalipto) y de coníferas (pino). De ellas se obtienen madera, celulosa, resina y corcho.

Las actividades agrarias han transformado profundamente el medio natural y han dado lugar a paisajes agrarios diferenciados:

- El **paisaje agrario oceánico** se localiza en el **norte** y **noroeste** peninsular, en un medio físico de relieve accidentado y clima oceánico. El **poblamiento** es disperso y las **parcelas** son pequeñas, numerosas y cerradas por setos.
- El **paisaje agrario mediterráneo** se localiza al **sur del clima oceánico,** en las **islas Baleares,** en **Ceuta** y en **Melilla,** en un medio físico de relieve llano y clima mediterráneo. En el interior peninsular, el **poblamiento** es concentrado y las **parcelas** grandes; y en el litoral mediterráneo tienen más importancia el poblamiento disperso y las parcelas pequeñas.
- El **paisaje agrario de Canarias** se localiza en las **islas Canarias,** en un medio físico de relieve volcánico accidentado y clima subtropical. El **poblamiento** es disperso y las **parcelas** presentan marcados contrastes entre las grandes explotaciones costeras y las pequeñas explotaciones del interior.

1.2 Las actividades pesqueras

Su producción se destina, sobre todo, al consumo humano en fresco. No obstante, parte de las capturas sufre alguna transformación industrial: congelación, conserva, salazón y producción de aceites y harinas.

En España, por su extenso litoral peninsular e insular, la **pesca marítima** ha tenido una gran importancia histórica. Pero su peso económico ha descendido, creciendo en cambio la **acuicultura** o cultivos marinos.

© Grupo Anaya, S. A. Material fotocopiable autorizado.

Área fotocopiable

Avanza en competencias

Diferenciar ideas esenciales

1 ¿Dónde se localizan los paisajes agrarios oceánico, mediterráneo y canario?

Oceánico	Mediterráneo	Canario

2 ¿Cómo es el poblamiento en estos paisajes agrarios?

Oceánico	Mediterráneo	Canario

3 ¿Qué tipo de parcelas predominan en estos paisajes agrarios?

Oceánico	Mediterráneo	Canario

Relacionar informaciones

4 Relaciona correctamente.

	Olivo
Ganadería	Algodón
Agricultura	Resina
Explotación forestal	Leche
	Cereales
	Embutidos

Trabajar con mapas

5 Fíjate en el mapa y di a qué paisaje agrario corresponde cada zona:

a) Cantábrico y Galicia: .....

b) Interior peninsular: .....

c) Costa mediterránea y atlántica andaluza: .....

d) Áreas de montaña: .....

Comprender informaciones

6 ¿Qué porcentaje de la población española trabajaba en el sector primario en 2013?

.....

7 ¿A qué se destina la producción pesquera en España?

.....

8 Señala algunas de las transformaciones industriales del pescado tras ser capturado.

.....

.....

Producir textos

9 ¿Cuáles son las características del paisaje agrario mediterráneo?

.....

.....

.....

Organizar la información

10 Completa las siguientes frases:

El paisaje agrario oceánico se localiza en el ..... y ..... peninsular, en un medio físico de relieve ..... y clima ..... . El paisaje agrario mediterráneo se localiza en la Península al ..... del clima oceánico, en las islas ....., en Ceuta y en ....., en un medio físico de relieve ..... y clima ..... . El paisaje agrario de Canarias se localiza en las islas ....., en un medio físico de relieve ..... y clima ..... .

11 Completa el siguiente cuadro:

El sector primario	
Agricultura	
Cultivos	
Ganadería	
Cabañas	
Explotación forestal	
Especies	
Pesca	
Actividades	

Nombre y apellidos: ..... Fecha: .....

Área fotocopiable

2. El sector secundario

Las actividades del sector secundario en España ocupaban al 19,8 % de la población española en el año 2013.

2.1 La producción minera

La minería ha perdido la importancia de épocas pasadas por el agotamiento de los yacimientos y el encarecimiento de su explotación. Los **minerales metálicos** apenas se extraen, al haberse cerrado muchas minas. Los **minerales industriales** se emplean en diversas industrias, y destacan la sal gema, la glauberita, la sal marina, el cuarzo y la sepiolita. Las **rocas** son el producto más explotado. Las de cantera se emplean sobre todo en la construcción; y las ornamentales, en usos decorativos.

2.2 La producción y el consumo de energía

- En España, la **producción de energía** con fuentes propias se basa en las energías renovables. Entre ellas destacan la **hidráulica** y ciertas **energías alternativas** (eólica, solar, biomasa). Siguen en importancia la energía nuclear y el carbón.
- El **consumo de energía** se basa en las fuentes de energía no renovables, como el **petróleo** (desde Oriente Próximo y Nigeria) y el **gas,** que deben importarse. También es necesario importar el **uranio** consumido en las centrales nucleares y parte del carbón usado en las centrales térmicas para producir electricidad.

2.3 Los sectores industriales

- Los **sectores tradicionales** más destacados son la metalurgia, la construcción naval, y las industrias textil, del cuero y calzado, la madera y el mueble, y el juguete.
- Los **sectores dinámicos** están representados por las industrias del automóvil, química y agroalimentaria.
- Los **sectores de alta tecnología** son el aeroespacial, la biotecnología, los productos farmacéuticos, la electrónica y las TIC.

2.4 Las áreas industriales

- **Madrid** y **Barcelona** son las principales áreas industriales de España. Ambas concentran las sedes de las grandes empresas nacionales y multinacionales, y las industrias de nuevas tecnologías.
- Los **ejes industriales,** surgidos en general a lo largo de las principales vías de comunicación, son los del Ebro y el Mediterráneo.
- La **cornisa cantábrica** es un área que ha sufrido la crisis y reconversión de sus principales sectores industriales: la siderurgia y la construcción naval.
- El resto del territorio peninsular, los dos archipiélagos y Ceuta y Melilla son áreas de escasa industrialización.

© Grupo Anaya, S. A. Material fotocopiable autorizado.

Nombre y apellidos: ..... Fecha: .....

Avanza en competencias

Relacionar informaciones

12 Marca con una X la opción correcta para cada caso.

– La producción de energía en España...

a) se basa en el petróleo.

b) se basa en las energías renovables.

c) es escasa.

– El consumo de energía en España...

a) se basa en fuentes de energía no renovables.

b) se basa únicamente en la importación.

c) es escasa.

13 Escribe a qué sector industrial pertenecen las siguientes industrias:

a) Automóvil, química y agroalimentaria: .....

b) Metalurgia, construcción naval e industrias textil, del cuero y calzado: .....
.....

c) Aeroespacial, biotecnología, productos farmacéuticos: .....

Trabajar con mapas

14 Según el mapa de la actividad industrial en España, indica:

a) ¿Cuáles son las áreas industriales desarrolladas? .....

b) ¿Qué región de España es un área industrial en declive? .....

c) ¿En qué zona de España se encuentra el área industrial en expansión? .....
.....

d) Señala a qué área industrial corresponden:

– Madrid y Barcelona: .....

– Ebro y Mediterráneo: .....

Diferenciar ideas esenciales

15 Responde a las siguientes preguntas:

a) ¿Qué fuentes de energía produce España? .....

b) ¿De dónde procede el petróleo que se consume en España? .....

c) ¿Es importante la producción de petróleo y gas natural en España? .....

d) ¿Qué es necesario importar para producir energía en las centrales nucleares? .....

Organizar la información

16 Completa las siguientes frases:

a) Los minerales ..... apenas se extraen, al haberse ..... muchas ..... . Los ..... industriales se emplean en diversas industrias.

b) En España, la producción de energía con fuentes propias se basa en las energías ..... . Entre ellas destacan la ..... y ciertas energías alternativas, como la ....., la ..... y la de ..... .

c) El consumo de energía se basa en las fuentes de energía ....., como el ..... y el ....., que deben importarse. También es necesario importar el ..... consumido en las centrales nucleares y parte del ..... usado en las centrales térmicas para producir electricidad.

Trabajar con gráficas

17 Observa la gráfica y señala cuáles son las tres ramas industriales que mayor valor de producción aportan. .....
.....
.....

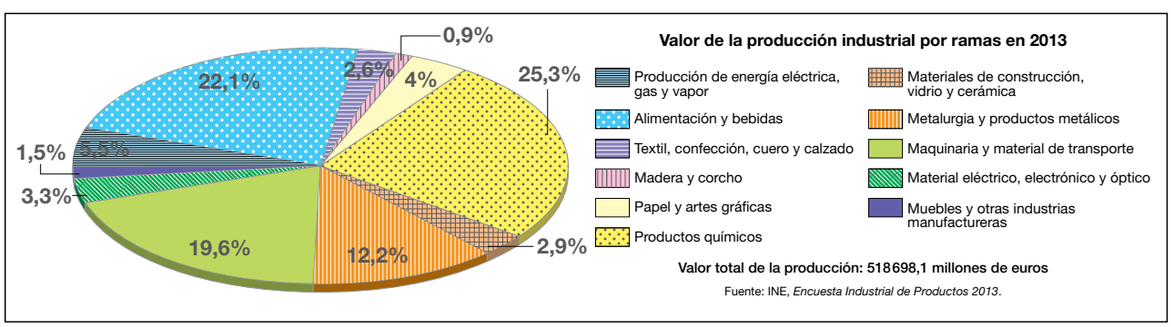

© Grupo Anaya, S. A. Material fotocopiable autorizado.

Nombre y apellidos: ..... Fecha: .....

3. El sector terciario

3.1 El comercio

- El **comercio interior** predominante en España es el **tradicional,** basado en pequeños establecimientos atendidos por el vendedor y concentrados en los centros urbanos. En la actualidad, sufre la creciente competencia de las grandes superficies comerciales, como hipermercados, grandes almacenes y centros comerciales, que utilizan la venta por autoservicio y se localizan en las periferias urbanas.
- El **comercio exterior** se ha incrementado, tanto con Europa como con el resto del mundo, gracias a la creciente internacionalización de nuestras empresas. En las **exportaciones,** destacan los bienes de equipo, los alimentos y los automóviles; en las **importaciones,** los productos energéticos, los bienes de equipo y productos químicos.

3.2 El transporte

- El **transporte terrestre** de pasajeros y mercancías se realiza por carretera, por autopistas y autovías, y por ferrocarril, donde destacan los trenes de alta velocidad.
- El **transporte marítimo** se usa sobre todo para el tráfico internacional de mercancías pesadas, y se concentra en los puertos de Algeciras, Barcelona y Valencia. El transporte marítimo de pasajeros se limita a trayectos entre islas o entre los dos lados del estrecho de Gibraltar.
- El **transporte aéreo** se ha desarrollado gracias al abaratamiento del precio y a la creciente integración española en la economía mundial. Predomina el traslado internacional de pasajeros, en los aeropuertos de Madrid y de Barcelona.

3.3 El turismo

España es, junto con Francia y EE. UU., una de las principales **potencias turísticas mundiales,** tanto por la llegada de turistas como por los ingresos procedentes de la actividad. Los **factores favorables** que han influido en el desarrollo turístico español son la cercanía a la clientela; las condiciones naturales, con veranos calurosos y excelentes playas; la riqueza cultural, artística, folclórica y gastronómica; la amplia oferta de infraestructuras; y la seguridad y estabilidad política en relación con otros países competidores próximos.

- El turismo tiene para España **consecuencias positivas,** como son la generación de ingresos y puestos de trabajo; el impulso de otras actividades económicas y de las infraestructuras de transporte; y el fomento del acercamiento entre los pueblos.
- También hay **consecuencias negativas,** como la estacionalidad del empleo; la subida de los precios; la saturación de las infraestructuras; los daños medioambientales causados por la edificación masiva; y la contaminación y producción de residuos.

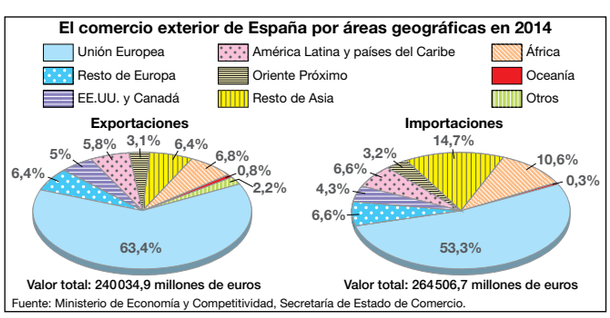

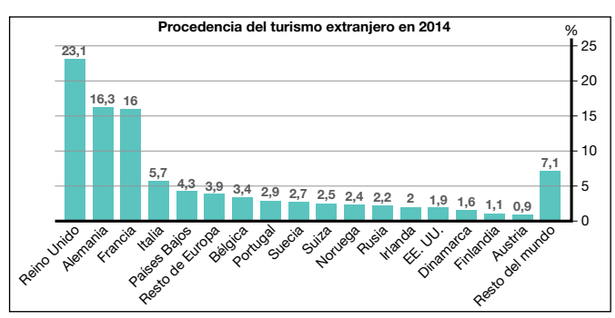

© Grupo Anaya, S. A. Material fotocopiable autorizado.

Nombre y apellidos: ..... Fecha: .....

Avanza en competencias

Comprender textos

18 Escribe tres factores favorables del desarrollo del turismo en España:

a) .....

b) .....

c) .....

Relacionar informaciones

19 Relaciona la característica con el comercio interior (CI) o con el comercio exterior (CE):

a) Pequeños establecimientos. (.....)

b) Internacionalización de sus empresas. (.....)

c) Concentrados en los centros urbanos. (.....)

d) Exportaciones de bienes de equipo, alimentos y automóviles. (.....)

e) Grandes superficies comerciales, como hipermercados, grandes almacenes y centros comerciales. (.....)

f) Importaciones de productos energéticos, bienes de equipo y productos químicos. (.....)

20 Relaciona con su medio de transporte: a) carretera, autopistas y autovías; b) mercancías pesadas; c) pasajeros entre islas; d) traslado internacional de pasajeros; e) trenes de alta velocidad.

Terrestre	Marítimo	Aéreo

21 Relaciona cada frase con una consecuencia positiva (CP) o negativa (CN) del turismo:

a) Genera ingresos y puestos de trabajo. (.....)

b) Saturación de las infraestructuras y daños medioambientales. (.....)

c) Subida de los precios. (.....)

d) Estacionalidad del empleo. (.....)

e) Fomenta el acercamiento entre los pueblos. (.....)

f) Impulsa otras actividades económicas y las infraestructuras de transporte. (.....)

Trabajar con gráficos

22 Observa las gráficas de la página anterior y responde a las cuestiones.

a) Señala si España es un país más importador o más exportador, y calcula la diferencia entre ambas balanzas.

.....

.....

b) Señala con qué regiones del mundo importamos más que exportamos.

.....

.....

c) ¿De qué continente proceden la mayor parte de turistas extranjeros que vienen a nuestro país? .....

.....

d) Completa la siguiente tabla con el país que corresponda de acuerdo al porcentaje.

%	País o región
1,9	
5,7	
2,7	
23,1	
0,9	
2	
3,4	
16	
1,1	
2,9	
16,3	
2,5	

Organizar la información

23 Completa las siguientes frases:

España es, junto con Francia y EE. UU., una de las principales potencias ..... mundiales, tanto por la ..... de turistas como por los ..... procedentes de la actividad. El turismo tiene para España consecuencias ..... y consecuencias ..... .

© Grupo Anaya, S. A. Material fotocopiable autorizado.

Nombre y apellidos: ..... Fecha: .....